Централизованное тестирование по всемирной истории новейшего времени, 2017

При выполнении заданий с кратким ответом впишите в поле для ответа цифру, которая соответствует номеру правильного ответа, или число, слово, последовательность букв (слов) или цифр. Ответ следует записывать без пробелов и каких-либо дополнительных символов. Имена правителей в заданиях с кратким ответом необходимо указывать словами: Пётр Первый или Пётр Великий, но не Пётр 1 или Пётр I.

В заданиях, где нужно установить соответствие между двумя столбцами, ответ запишите в виде сочетания букв и цифр, соблюдая алфавитную последовательность букв левого столбца. Некоторые данные правого столбца могут использоваться несколько раз или не использоваться вообще. Например: А1Б1В4Г2.

Если вариант задан учителем, вы можете вписать или загрузить в систему ответы к заданиям с развернутым ответом. Учитель увидит результаты выполнения заданий с кратким ответом и сможет оценить загруженные ответы к заданиям с развернутым ответом. Выставленные учителем баллы отобразятся в вашей статистике.

1. Строительство небоскреба Эмпайр-стейт-билдинг завершилось в 1931 г. в:

1) Нью-Йорк 2) Токио 3) Берлине 4) Лондоне

2. «Поход на Рим» в октябре 1922 г. совершили фашисты во главе с:

1) Ф. Франко 2) А. Гитлером 3) Б. Муссолини 4) М. Хорти

3. Первой жертвой агрессии со стороны Германии среди стран Центральной и Юго-Восточной Европы в межвоенный период стала:

1) Болгария 2) Румыния 3) Чехословакия 4) Венгрия

4. Одна из причин мирового экономического кризиса (1929—1933) заключалась в:

1) плановом ведении хозяйства 2) проведении крупных социальных реформ
3) распаде колониальной системы
4) искусственном поддержании монополиями высокого уровня цен

5. Территория государства, с которым Германия в мае 1939 г. заключила договор о взаимной помощи («Стальной пакт»), обозначена на карте цифрой:

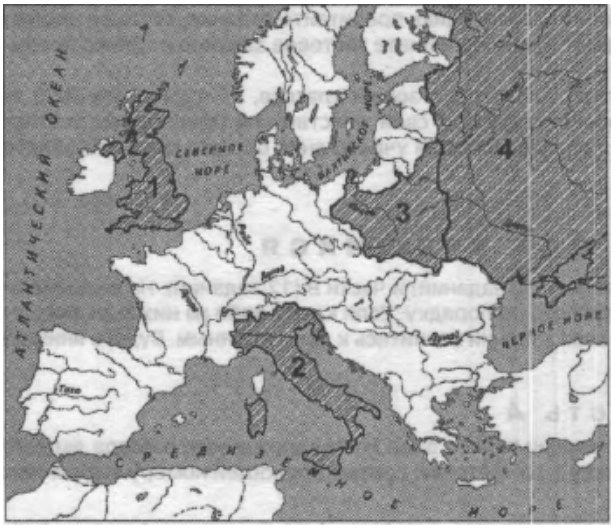

1) 1 2) 2 3) 3 4) 4

6. Укажите событие, которое произошло последним среди перечисленных:

1) «ночь длинных ножей» в Германии 2) окончание гражданской войны в Испании
3) победа Народного фронта на парламентских выборах во Франции
4) VII конгресс Коминтерна

7. Установите последовательность событий в истории стран Запада в межвоенный период.

А) создание Коммунистического Интернационала	1) АВГБ;
Б) Мюнхенская конференция	2) АГВБ;
В) подписание Латеранских соглашений между Италией и Ватиканом	3) ГАБВ;
Г) подписание Рейнского гарантийного пакта	4) ГБАВ.

8. Определите последовательность событий установления Советской власти и Гражданской войны в России.

А) II Всероссийский съезд Советов рабочих и солдатских депутатов	1) АБВГ;
Б) провозглашение Колчака Верховным правителем России	2) АБГВ;
В) взятие Владивостока войсками Красной Армии	3) ГВБА;
Г) разгром армии Юденича на северо-западе России	4) ВГАБ.

9. Укажите характерные черты новой экономической политики в Советской России.

А) ускорение темпов развития тяжелой промышленности	1) АБГ;
Б) отказ от экономических связей со странами Запада	2) АВД;
В) отмена уравнительного распределения	3) БВГ;
Г) разрешение небольших частных предприятий	4) ВГД.
Д) введение денежного обращения	

10. Основные черты развития СССР в 1930гг::

а) строгое соблюдение всех прав и свобод советских граждан	1) а, в;
б) формирование культа личности вождя	2) б, г;
в) господство однопартийной системы	3) а, г;
г) отмена государственного контроля над литературой и искусством	4) б, в.

11. Центральный аэрогидродинамический институт (ЦАГИ) был создан при активном участии:

А — поощрение различных форм кооперации
Б — переход всей системы распределения под контроль государства
В — разрешение аренды земли и использования наемной рабочей силы
Г — замену продналога продразверсткой
Д — предоставление крестьянам права свободно распоряжаться излишками своего труда

1) Н. Е. Жуковского 2) Ф. А. Цандера 3) А. Ф. Иоффе 4) О. Ю. Шмидта.

12. Укажите событие, которое произошло первым среди перечисленных:

1) начало сплошной коллективизации сельского хозяйства 2) III Всероссийский съезд Советов
3) подписание Рапалльского договора с Германией
4) создание общества «Долой безграмотность»

13. Укажите советского государственного и политического деятеля, который 5 января 1918 г. открыл первое заседание Учредительного собрания, был председателем комиссии по выработке в 1918 г. первой Конституции РСФСР:

1) А. Г. Стаханов 2) В. М. Молотов 3) Я. М. Свердлов 4) Л. Д. Троцкий

14. Установите верное утверждение.

1) В апреле 1941 г. в Москве был подписан советско-японский пакт о ненападении.
2) Конституция СССР 1924 г. закрепила господство многопартийной политической системы.
3) Главной целью индустриализации было восстановление рыночной экономики.
4) В середине 1920-х гг. в СССР развернулась острая борьба внутри большевистской партии по вопросу подписания Брестского мира.

15. М. К. Ганди был признанным лидером:

1) Гоминьдана 2) партии Вафд 3) ИНК 4) движения неприсоединения

16. Установите соответствие:

А) Аманулла-хан	1) провозглашение Турции республикой
Б) Мустафа Кемаль	2) принятие конституции Афганистана
В) Чан Кайши	3) соляной поход против английских колонизаторов
	4) объединение Китая под властью Гоминьдана

1) А4Б1В3; 2) А3Б1В2; 3) А2Б4В3 4) А2Б1В4

17. Комитет «Свободная Франция» в Лондоне в 1940 г. возглавил генерал:

1) Л. Блюм 2) Ш. де Голль 3) Д. Эйзенхауэр 4) Э. Даладье

18. Одним из результатов общего наступления Красной Армии в январе-феврале 1943 г., план которого представлен на карте (границы указаны на август 1939 г.), был:

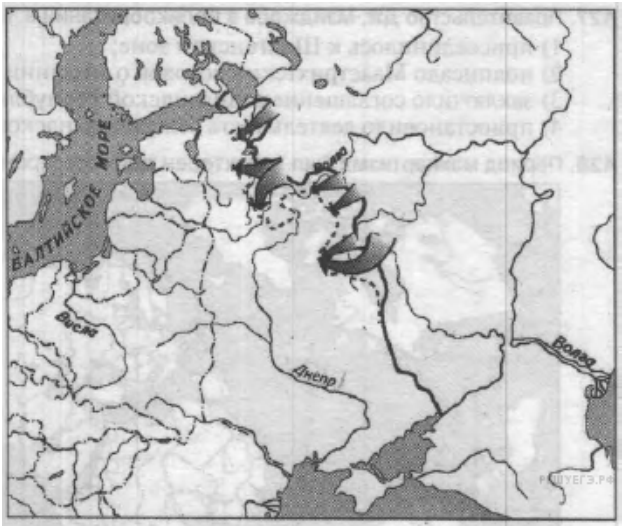

1) выход к восточной границе 2) разгром группы армий «Север»
3) разгром около 50 германских дивизий 4) снятие блокады Ленинграда

19. Победа Красной Армии на Курской дуге и битва за Днепр (1943) завершили:

1) открытие второго фронта 2) снятие блокады Ленинграда
3) коренной перелом в ходе войны 4) «странную войну»

20. В результате Львовско-Сандомирской наступательной операции Красная Армия освободила:

1) Венгрию 2) Польшу 3) Австрию 4) Украину

21. Укажите событие, связанное с изображенным на снимке военным деятелем:

1) операция «Багратион» 2) освобождение территории Крыма
3) прорыв блокады Ленинграда 4) разгром Квантунской армии в Маньчжурии

22. Установите верное утверждение.

1) В Италии движение Сопротивления контролировала Народно-освободительная армия во главе с И. Броз Тито.
2) Армия Крайова (АК), действовавшая на территории Польши и Западной Беларуси, ориентировалась на эмигрантское правительство в Лондоне.

3) Во время контрнаступления Красной Армии под Москвой партизаны осуществили операцию «рельсовая война».

4) Центральный штаб партизанского движения в 1942 г. возглавил Л. М. Доватор.

23. Реальной угрозой мировой ядерной войны в 1962 г. был(-о):

1) развал социалистического лагеря 2) ввод советских войск в Афганистан
3) принятие «плана Маршалла» 4) Карибский кризис

24. Для экономики США в период президентства Дж Буша (старшего) было характерно:

1) увеличение числа рабочих мест 2) сокращение военных расходов
3) проведение национализации ряда отраслей промышленности
4) сокращение производства продукции в гражданских отраслях

25. Экономическая политика президента Франции Ж. Ширака была направлена на:

1) освобождение экономики от чрезмерного контроля государства
2) усиление государственного регулирования экономики
3) отказ от участия в европейской экономической интеграции
4) укрепление франка в противовес евро

26. В середине 1950-х гг. ФРГ добилась разрешения на:

1) ликвидацию иностранных военных баз на своей территории
2) беспошлинную торговлю в странах тихоокеанского региона
3) размещение собственных военных баз на севере Европы
4) создание своих вооруженных сил численностью до 500 тыс. чел.

27. Правительство Дж. Мэйджора в Великобритании в 1992 г.:

1) присоединилось к Шенгенской зоне
2) подписало Маастрихтский договор о создании Европейского Союза
3) заключило соглашение с Ирландской Республикой
4) приостановило деятельность североирландского парламента и ввело прямое правление из Лондона

28. Период маккартизма был характерен для государства, территория которого обозначена на карте цифрой:

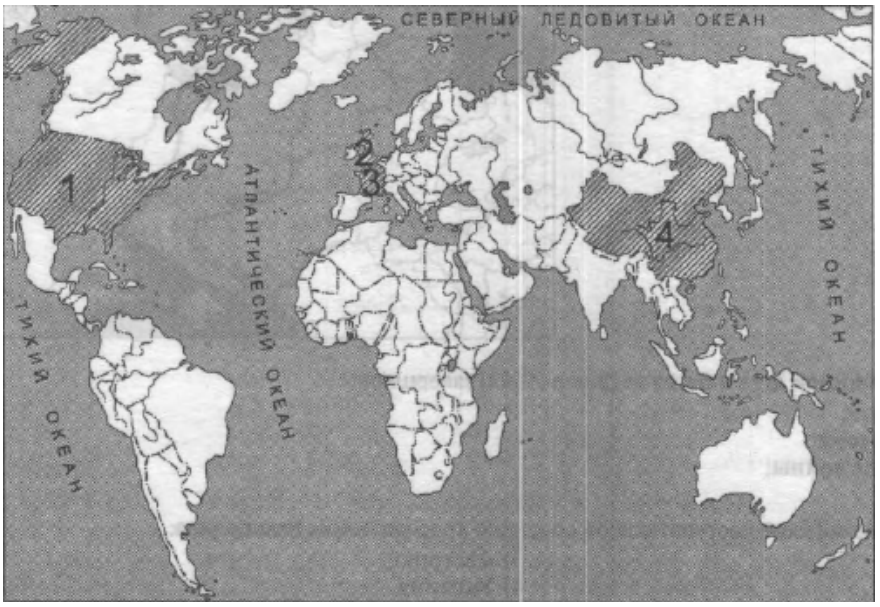

1) 1 2) 2 3) 3 4) 4

29. Укажите область культуры, к которой относится творчество Э. Пресли:

1) живопись 2) музыка 3) скульптура 4) архитектура

30. После смерти И. В. Сталина в 1953 г. Первым секретарем ЦК КПСС стал:

1) М. И. Калинин 2) Л. И. Брежнев 3) М. С. Горбачев 4) Н. С. Хрущев

31. Экономической реформой 1965 г. в СССР предусматривалось(-ся):

1) увеличение государственных плановых показателей
2) освоение целинных и залежных земель 3) полный отказ от централизованного управления
4) усиление экономического стимулирования

32. М. С. Горбачев считал возможным осуществить обновление социализма путем:

1) реформирования неэффективной системы управления государством
2) отказа от руководящей роли коммунистической партии
3) проведения политики шоковой терапии 4) подавления частной инициативы

33. В 1960—2000-е гг. яркими поэтическими произведениями была отмечена творческая деятельность:

1) Э. И. Неизвестного 2) Д. Д. Шостаковича 3) Е. А. Евтушенко 4) А. Н. Пахмутовой

34. Укажите событие, которое произошло последним среди перечисленных:

1) принятие Конституции Российской Федерации;
2) начало контртеррористической операции в Чеченской Республике;
3) избрание В. В. Путина президентом России на второй срок
4) уход в отставку правительства В. С. Черномырдина

35. Укажите событие, связанное с изображенным на снимке государственным деятелем:

1) начало реабилитации жертв сталинских репрессий 2) переход к политике гласности
3) подписание соглашения о создании СНГ 4) создание Таможенного союза

36. Для характеристики экономических реформ, проведенных Дэн Сяопином в Китае, верным является утверждение:

1) Почти все население страны начало производить металл в кустарных условиях.
2) Широкое распространение в Китае получил семейный подряд.
3) Сотни тысяч кооперативов на селе были преобразованы в народные коммуны.
4) Государственный сектор экономики создавался за счет конфискации собственности крупной национальной буржуазии.

37. В результате демократических выборов С. Альенде стал президентом Чили в:

1) 1970 г. 2) 1973 г. 3) 1978 г. 4) 1979 г.

38. Установите соответствие:

А) военная операция против Ирака «Буря в пустыне»	1) 1961 г.
Б) возведение Берлинской стены	2) 1966 г.
В) ввод советских войск в Афганистан	3) 1979 г.
Г) выход Франции из военной организации НАТО	4) 1991 г.

1) А3Б1В4Г2; 2) А1Б2В4Г3; 3) А3Б4В2Г1; 4) А4Б1В3Г2.

39. Укажите три условия Версальского мирного договора:

1) признание независимости Австрии; 2) признание суверенитета и территориальной целостности Китая; 3) переход Саарского угольного бассейна в собственность Франции; 4) переход Саарской области на 15 лет под управление Лиги Наций; 5) придание Мемелю (Клайпеда) статуса «вольный город»; 6) передача Австрии Южного Тироля.

40. Выберите три элемента политики «военного коммунизма»:

1) приватизация крупных промышленных предприятий; 2) проведение сплошной коллективизации сельского хозяйства; 3) установление уравнительной государственно-распределительной системы; 4) раскулачивание зажиточных крестьян; 5) ликвидация частной собственности; 6) прямой товарообмен между городом и деревней.

41. Насильственное присоединение, захват одним государством всей или части территории другого государства — это ___.

Ответ запишите словом (или словами без пробелов, дефиса или других разделительных знаков) в форме именительного падежа.

42. Система военных, социально-экономических, политических и идеологических мероприятий, направленных на создание оккупационного режима, которую устанавливали фашисты на занятых территориях, получила название «_____».

Ответ запишите словом (или словами без пробелов, дефиса или других разделительных знаков) в форме именительного падежа.

43. Приказ И. В. Сталина № 227, известный под названием «Ни шагу назад!», был издан 28 июля ____ года.

44. Установите соответствие.

А)

Б)

В)

Г)

1) канцлер ФРГ, инициатор объединения Германии
2) основатель и первый президент Пятой республики во Франции
3) лидер борьбы афроамериканцев против расовой дискриминации
4) лидер Христианско-демократической партии Италии, автор так называемого «исторического проекта»
5) президент США, обосновавший программу достижения «новых рубежей»

Ответ запишите в виде сочетания букв и цифр, соблюдая алфавитную последовательность букв. Помните, что некоторые данные правого столбца могут не использоваться. Например: А1Б5В2Г4.

45. Установите соответствие между датами и событиями:

А) 1949 г.	1) признание парламентом Великобритании распада Британской империи
Б) 1959 г.	2) падение Берлинской стены
В) 1980 г.	3) принятие Конституции ФРГ
Г) 1989 г.	4) создание Северного совета из депутатов парламентов стран Северной Европы
	5) создание профсоюзного объединения «Солидарность» в Польше

Ответ запишите в виде сочетания букв и цифр, соблюдая алфавитную последовательность букв. Помните, что некоторые данные правого столбца могут не использоваться. Например: А1Б5В2Г4.

46. Установите последовательность прихода к власти государственных деятелей.

1) Б. Обама;
2) А. Меркель;
3) Ф. Миттеран;
4) А. де Гаспери;
5) Б. Клинтон.

Ответ запишите цифрами, соблюдая полученную последовательность. Например: 42135.

47. Установите последовательность событий в истории СССР и Российской Федерации.

1) Вывод советских войск из Афганистана;
2) начало кампании по борьбе с «безродным космополитизмом»;
3) подписание Договора о создании Союзного государства Беларуси и России;
4) принятие Конституции развитого социализма;
5) запуск первого в мире космического корабля с человеком на борту.

Ответ запишите цифрами, соблюдая полученную последовательность. Например: 42135.

48. Установите последовательность событий в сфере международных отношений во второй половине XX — начале XXI в.

1) Начало Корейской войны;
2) окончание ирано-иракской войны;
3) свержение режима С. Хусейна в Ираке;
4) окончание первой арабо-израильской войны;
5) подписание Парижской хартии для новой Европы.

Ответ запишите цифрами, соблюдая полученную последовательность. Например: 42135.

49. Принятие деклараций о независимости Верховными Советами союзных республик в 1990—1991 гг. получило название « _____ суверенитетов».

Ответ запишите словом (или словами без пробелов, дефиса или других разделительных знаков) в форме именительного падежа.

50. Программа построения «конгрессистского социализма» в 1950-е — первой половине 1960-х гг. в государстве, территория которого заштрихована на карте, получила название «___».

Ответ запишите словом (или словами без пробелов, дефиса или других разделительных знаков) в форме именительного падежа.